CENTRALNA KOMISJA EGZAMINACYJNA

Arkusz zawiera informacje prawnie chronione do momentu rozpoczęcia egzaminu.

Układ graficzny © CKE 2013

UZUPEŁNIA ZDAJĄCY

KOD **PESEL**

miejsce na naklejkę

EGZAMIN MATURALNY Z MATEMATYKI

POZIOM PODSTAWOWY

Instrukcja dla zdającego

1. Sprawdź, czy arkusz egzaminacyjny zawiera 26 stron (zadania 1–34). Ewentualny brak zgłoś przewodniczącemu zespołu nadzorującego egzamin.
2. Rozwiązania zadań i odpowiedzi wpisuj w miejscu na to przeznaczonym.
3. Odpowiedzi do zadań zamkniętych (1–25) zaznacz na karcie odpowiedzi, w części karty przeznaczonej dla zdającego. Zamaluj ■ pola do tego przeznaczone. Błędne zaznaczenie otocz kółkiem ◉ i zaznacz właściwe.
4. Pamiętaj, że pominięcie argumentacji lub istotnych obliczeń w rozwiązaniu zadania otwartego (26–34) może spowodować, że za to rozwiązanie nie otrzymasz pełnej liczby punktów.
5. Pisz czytelnie i używaj tylko długopisu lub pióra z czarnym tuszem lub atramentem.
6. Nie używaj korektora, a błędne zapisy wyraźnie przekreśl.
7. Pamiętaj, że zapisy w brudnopisie nie będą oceniane.
8. Możesz korzystać z zestawu wzorów matematycznych, cyrkla i linijki oraz kalkulatora prostego.
9. Na tej stronie oraz na karcie odpowiedzi wpisz swój numer PESEL i przyklej naklejkę z kodem.
10. Nie wpisuj żadnych znaków w części przeznaczonej dla egzaminatora.

UZUPEŁNIA ZESPÓŁ NADZORUJĄCY

Uprawnienia zdającego do:

- ☐ dostosowania kryteriów oceniania
- ☐ nieprzenoszenia zaznaczeń na kartę
- ☐ dostosowania w zw. z dyskalkulią

5 MAJA 2020

Godzina rozpoczęcia: 9:00

Czas pracy: 170 minut

Liczba punktów do uzyskania: 50

MMA-P1_1P-202

ZADANIA ZAMKNIĘTE

W każdym z zadań od 1. do 25. wybierz i zaznacz na karcie odpowiedzi poprawną odpowiedź.

Zadanie 1. *(1 pkt)*

Wartość wyrażenia x^2-6x+9 dla $x=\sqrt{3}+3$ jest równa

A. 1 **B.** 3 **C.** $1+2\sqrt{3}$ **D.** $1-2\sqrt{3}$

Zadanie 2. *(1 pkt)*

Liczba $\frac{2^{50}\cdot 3^{40}}{36^{10}}$ jest równa

A. 6^{70} **B.** 6^{45} **C.** $2^{30}\cdot 3^{20}$ **D.** $2^{10}\cdot 3^{20}$

Zadanie 3. *(1 pkt)*

Liczba $\log_5\sqrt{125}$ jest równa

A. $\frac{2}{3}$ **B.** 2 **C.** 3 **D.** $\frac{3}{2}$

Zadanie 4. *(1 pkt)*

Cenę x pewnego towaru obniżono o 20% i otrzymano cenę y. Aby przywrócić cenę x, nową cenę y należy podnieść o

A. 25% **B.** 20% **C.** 15% **D.** 12%

Zadanie 5. *(1 pkt)*

Zbiorem wszystkich rozwiązań nierówności $3(1-x)>2(3x-1)-12x$ jest przedział

A. $\left(-\frac{5}{3},+\infty\right)$ **B.** $\left(-\infty,\frac{5}{3}\right)$ **C.** $\left(\frac{5}{3},+\infty\right)$ **D.** $\left(-\infty,-\frac{5}{3}\right)$

Zadanie 6. *(1 pkt)*

Suma wszystkich rozwiązań równania $x(x-3)(x+2)=0$ jest równa

A. 0 **B.** 1 **C.** 2 **D.** 3

BRUDNOPIS *(nie podlega ocenie)*

Informacja do zadań 7.–9.

Funkcja kwadratowa f jest określona wzorem $f(x)=a(x-1)(x-3)$. Na rysunku przedstawiono fragment paraboli będącej wykresem tej funkcji. Wierzchołkiem tej paraboli jest punkt $W=(2,1)$.

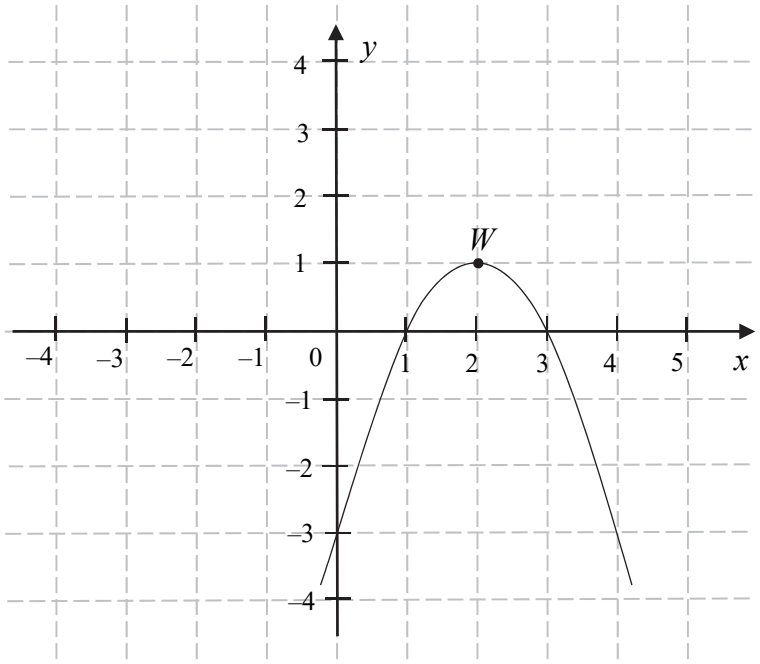

Zadanie 7. *(1 pkt)*

Współczynnik a we wzorze funkcji f jest równy

A. 1 **B.** 2 **C.** –2 **D.** –1

Zadanie 8. *(1 pkt)*

Największa wartość funkcji f w przedziale $\langle 1,4\rangle$ jest równa

A. –3 **B.** 0 **C.** 1 **D.** 2

Zadanie 9. *(1 pkt)*

Osią symetrii paraboli będącej wykresem funkcji f jest prosta o równaniu

A. $x=1$ **B.** $x=2$ **C.** $y=1$ **D.** $y=2$

BRUDNOPIS *(nie podlega ocenie)*

Zadanie 10. *(1 pkt)*

Równanie $x(x-2)=(x-2)^2$ w zbiorze liczb rzeczywistych

A. nie ma rozwiązań.
B. ma dokładnie jedno rozwiązanie: $x=2$.
C. ma dokładnie jedno rozwiązanie: $x=0$.
D. ma dwa różne rozwiązania: $x=1$ i $x=2$.

Zadanie 11. *(1 pkt)*

Na rysunku przedstawiono fragment wykresu funkcji liniowej f określonej wzorem $f(x)=ax+b$.

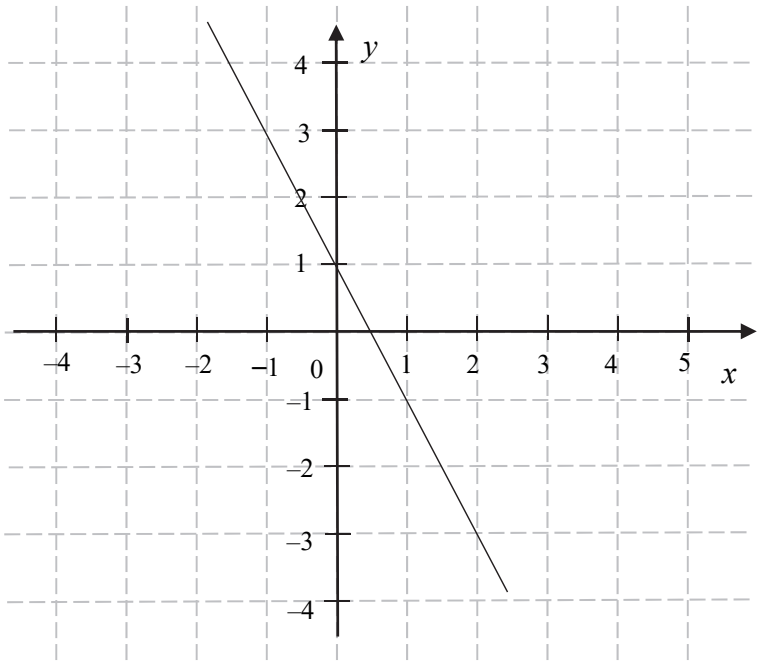

Współczynniki a oraz b we wzorze funkcji f spełniają zależność

A. $a+b>0$ **B.** $a+b=0$ **C.** $a\cdot b>0$ **D.** $a\cdot b<0$

Zadanie 12. *(1 pkt)*

Funkcja f jest określona wzorem $f(x)=4^{-x}+1$ dla każdej liczby rzeczywistej x. Liczba $f\left(\frac{1}{2}\right)$ jest równa

A. $\frac{1}{2}$ **B.** $\frac{3}{2}$ **C.** 3 **D.** 17

Zadanie 13. *(1 pkt)*

Proste o równaniach $y=(m-2)x$ oraz $y=\frac{3}{4}x+7$ są równoległe. Wtedy

A. $m=-\frac{5}{4}$ **B.** $m=\frac{2}{3}$ **C.** $m=\frac{11}{4}$ **D.** $m=\frac{10}{3}$

BRUDNOPIS *(nie podlega ocenie)*

Zadanie 14. *(1 pkt)*

Ciąg (a_n) jest określony wzorem $a_n = 2n^2$ dla $n \geq 1$. Różnica $a_5 - a_4$ jest równa

A. 4 **B.** 20 **C.** 36 **D.** 18

Zadanie 15. *(1 pkt)*

W ciągu arytmetycznym (a_n), określonym dla $n \geq 1$, czwarty wyraz jest równy 3, a różnica tego ciągu jest równa 5. Suma $a_1 + a_2 + a_3 + a_4$ jest równa

A. -42 **B.** -36 **C.** -18 **D.** 6

Zadanie 16. *(1 pkt)*

Punkt $A = \left(\frac{1}{3}, -1\right)$ należy do wykresu funkcji liniowej f określonej wzorem $f(x) = 3x + b$. Wynika stąd, że

A. $b = 2$ **B.** $b = 1$ **C.** $b = -1$ **D.** $b = -2$

Zadanie 17. *(1 pkt)*

Punkty *A*, *B*, *C*, *D* leżą na okręgu o środku w punkcie *O*. Kąt środkowy *DOC* ma miarę 118° (zobacz rysunek).

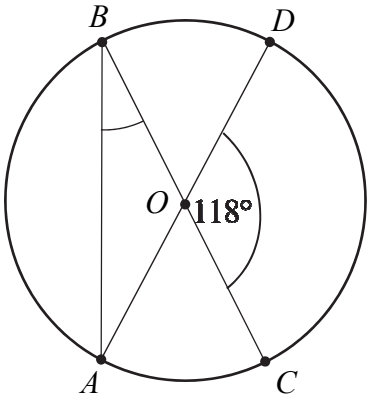

Miara kąta *ABC* jest równa

A. 59° **B.** 48° **C.** 62° **D.** 31°

Zadanie 18. *(1 pkt)*

Prosta przechodząca przez punkty $A = (3, -2)$ i $B = (-1, 6)$ jest określona równaniem

A. $y = -2x + 4$ **B.** $y = -2x - 8$ **C.** $y = 2x + 8$ **D.** $y = 2x - 4$

BRUDNOPIS *(nie podlega ocenie)*

Zadanie 19. *(1 pkt)*

Dany jest trójkąt prostokątny o kątach ostrych α i β (zobacz rysunek).

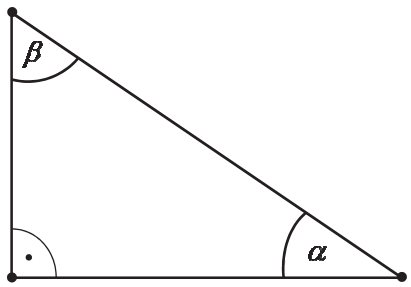

Wyrażenie $2\cos\alpha - \sin\beta$ jest równe

A. $2\sin\beta$ **B.** $\cos\alpha$ **C.** 0 **D.** 2

Zadanie 20. *(1 pkt)*

Punkt B jest obrazem punktu $A=(-3,5)$ w symetrii względem początku układu współrzędnych. Długość odcinka AB jest równa

A. $2\sqrt{34}$ **B.** 8 **C.** $\sqrt{34}$ **D.** 12

Zadanie 21. *(1 pkt)*

Ile jest wszystkich dwucyfrowych liczb naturalnych utworzonych z cyfr: 1, 3, 5, 7, 9, w których cyfry się nie powtarzają?

A. 10 **B.** 15 **C.** 20 **D.** 25

Zadanie 22. *(1 pkt)*

Pole prostokąta *ABCD* jest równe 90. Na bokach *AB* i *CD* wybrano – odpowiednio – punkty P i R, takie, że $\frac{|AP|}{|PB|}=\frac{|CR|}{|RD|}=\frac{3}{2}$ (zobacz rysunek).

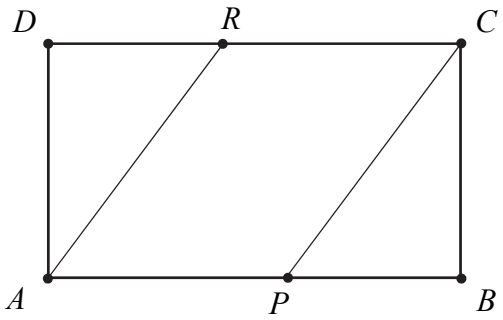

Pole czworokąta *APCR* jest równe

A. 36 **B.** 40 **C.** 54 **D.** 60

BRUDNOPIS *(nie podlega ocenie)*

Zadanie 23. *(1 pkt)*

Cztery liczby: 2, 3, a, 8, tworzące zestaw danych, są uporządkowane rosnąco. Mediana tego zestawu czterech danych jest równa medianie zestawu pięciu danych: 5, 3, 6, 8, 2. Zatem

A. $a = 7$ **B.** $a = 6$ **C.** $a = 5$ **D.** $a = 4$

Zadanie 24. *(1 pkt)*

Dany jest sześcian *ABCDEFGH*. Sinus kąta α nachylenia przekątnej *HB* tego sześcianu do płaszczyzny podstawy *ABCD* (zobacz rysunek) jest równy

A. $\frac{\sqrt{3}}{3}$ **B.** $\frac{\sqrt{6}}{3}$ **C.** $\frac{\sqrt{2}}{2}$ **D.** $\frac{\sqrt{6}}{2}$

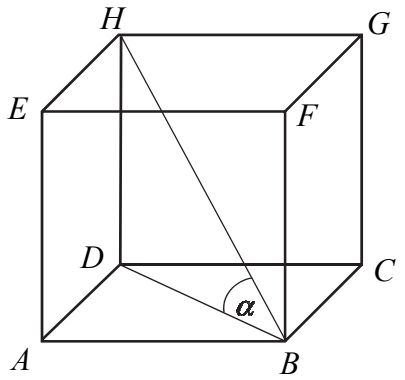

Zadanie 25. *(1 pkt)*

Dany jest stożek o objętości 18π, którego przekrojem osiowym jest trójkąt *ABC* (zobacz rysunek). Kąt *CBA* jest kątem nachylenia tworzącej l tego stożka do płaszczyzny jego podstawy. Tangens kąta *CBA* jest równy 2.

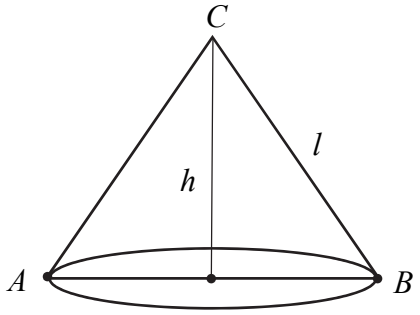

Wynika stąd, że wysokość h tego stożka jest równa

A. 12 **B.** 6 **C.** 4 **D.** 2

BRUDNOPIS *(nie podlega ocenie)*

Zadanie 26. *(2 pkt)*

Rozwiąż nierówność $2(x-1)(x+3) > x-1$.

Odpowiedź: .....

Zadanie 27. *(2 pkt)*

Rozwiąż równanie $x^3 - 9x^2 - 4x + 36 = 0$.

Odpowiedź: .....

Wypełnia egzaminator	Nr zadania	26.	27.
	Maks. liczba pkt	2	2
	Uzyskana liczba pkt		

Zadanie 28. *(2 pkt)*

Wykaż, że dla każdych dwóch różnych liczb rzeczywistych a i b prawdziwa jest nierówność

$$a(a-2b)+2b^2>0.$$

Zadanie 29. *(2 pkt)*

Trójkąt ABC jest równoboczny. Punkt E leży na wysokości CD tego trójkąta oraz $|CE| = \frac{3}{4}|CD|$.
Punkt F leży na boku BC i odcinek EF jest prostopadły do BC (zobacz rysunek).

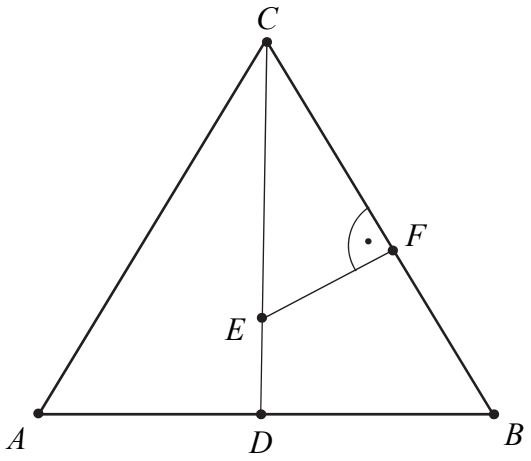

Wykaż, że $|CF| = \frac{9}{16}|CB|$.

Wypełnia egzaminator	Nr zadania	28.	29.
	Maks. liczba pkt	2	2
	Uzyskana liczba pkt		

Zadanie 30. *(2 pkt)*

Rzucamy dwa razy symetryczną sześcienną kostką do gry, która na każdej ściance ma inną liczbę oczek – od jednego oczka do sześciu oczek. Oblicz prawdopodobieństwo zdarzenia A polegającego na tym, że co najmniej jeden raz wypadnie ścianka z pięcioma oczkami.

Odpowiedź: .....

Zadanie 31. *(2 pkt)*

Kąt α jest ostry i spełnia warunek $\frac{2\sin\alpha + 3\cos\alpha}{\cos\alpha} = 4$. Oblicz tangens kąta α.

Odpowiedź: .....

Wypełnia egzaminator	Nr zadania	30.	31.
	Maks. liczba pkt	2	2
	Uzyskana liczba pkt		

Zadanie 32. *(4 pkt)*

Dany jest kwadrat *ABCD*, w którym $A=\left(5,-\frac{5}{3}\right)$. Przekątna *BD* tego kwadratu jest zawarta w prostej o równaniu $y=\frac{4}{3}x$. Oblicz współrzędne punktu przecięcia przekątnych *AC* i *BD* oraz pole kwadratu *ABCD*.

Odpowiedź: .....

Wypełnia egzaminator	Nr zadania	32.
	Maks. liczba pkt	4
	Uzyskana liczba pkt	

Zadanie 33. *(4 pkt)*

Wszystkie wyrazy ciągu geometrycznego (a_n), określonego dla $n \geq 1$, są dodatnie. Wyrazy tego ciągu spełniają warunek $6a_1 - 5a_2 + a_3 = 0$. Oblicz iloraz q tego ciągu należący do przedziału $\left\langle 2\sqrt{2}, 3\sqrt{2} \right\rangle$.

Odpowiedź: .....

Wypełnia egzaminator	Nr zadania	33.
	Maks. liczba pkt	4
	Uzyskana liczba pkt	

Zadanie 34. *(5 pkt)*

Dany jest ostrosłup prawidłowy czworokątny *ABCDS*, którego krawędź boczna ma długość 6 (zobacz rysunek). Ściana boczna tego ostrosłupa jest nachylona do płaszczyzny podstawy pod kątem, którego tangens jest równy $\sqrt{7}$. Oblicz objętość tego ostrosłupa.

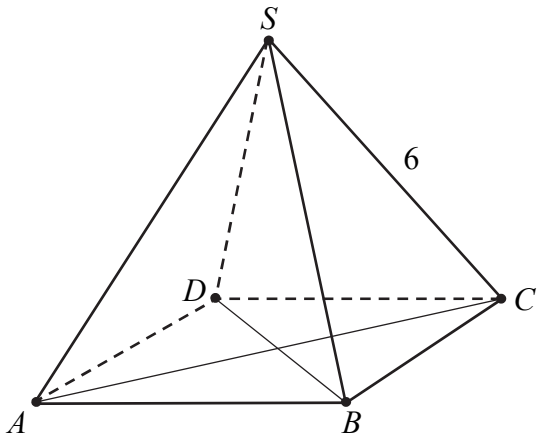

Odpowiedź: .....

Wypełnia egzaminator	Nr zadania	34.
	Maks. liczba pkt	5
	Uzyskana liczba pkt	

BRUDNOPIS *(nie podlega ocenie)*